Estratégia Concursos

Aula 00

Disciplina Bônus: Edital 2023 - ALESC - Passo Estratégico de Realidade Política, Social e Econômica de Santa Catarina - 2023

Autor:
Sergio Henrique

29 de Março de 2023

ESTATÍSTICAS

Os assuntos mais cobrados

Os principais assuntos cobrados nos concursos sobre conhecimentos gerais, história e geografia de SC aparecem na tabela em ordem crescente de incidência. As questões exploram especialmente as características gerais sobre as diferentes regiões estaduais, aspectos econômicos e a formação do território e da população.

Assunto	Grau de incidência em concursos similares
Aspectos Naturais	5%
Urbanização e Mesorregiões	10%
A População e a ocupação Histórica do Território	20%
SC no século XIX e XX	30%
Aspectos Econômicos	35%

GEOGRAFIA DE SANTA CATARINA

Santa Catarina possui em seu território distintas paisagens resultantes de diferentes formas de revelo, variações climáticas e de vegetação.

Relevo

A maior parte do estado se encontra em altitude superior a 300 metros e pode ser classificado em unidades de relevo, sendo as principais atualmente: Planície Costeira, Planalto de São Bento do Sul, Serra do Mar, Serra Geral, Planalto Dissecado Rio Iguaçu/Rio Uruguai e Planalto dos Campos Gerais.

Planície Costeira: se localiza ao Leste, junto ao oceano Atlântico.

Planalto de São Bento do Sul: formam um planalto situado em altitudes entre 850 e 950 metros.

Serra do Mar: formada pelas bordas leste e sul do Planalto de São Bento do Sul, está localizada no Nordeste do estado.

Serra Geral: é a escarpa do planalto, variando sua amplitude altimétrica ao longo de seu território de abrangência.

Por Skyfoto-Marcos Alexandre - Obra do próprio, CC BY-SA 3.0, https://commons.wikimedia.org/w/index.php?curid=32915068

Planalto Dissecado Rio Iguaçu / Rio Uruguai: possui vales profundos e encostas em patamares.

Parque Nacional de Aparados da Serra.

Planalto dos Campos Gerais: formado pelos blocos planalto de Palmas, planalto de Capanema, planalto de Campos Novos e planalto de Chapecó.

Clima

Clima temperado (ou subtropical) com as quatro estações bem definidas. Por estar localizado próximo o trópico de Capricórnio pode ser classificado como Subtropical Úmido.

Enquadra-se nos climas do Grupo C – Mesotérmico e possui duas principais áreas de classificação climática: CFA (subtropical com verões quentes e úmidos) e CFB (subtropical com verões brandos).

Apresenta chuvas bem distribuídas durante todo o ano.

Vegetação

Possui ampla variedade ambiental e múltiplas paisagens naturais e formações vegetais, sendo suas formações fitogeográficas: Vegetação Litorânea, **Mata Atlântica**, **Mata de Araucária**, Campos do Planalto e Mata Subtropical.

Parque Nacional das Araucárias

Hidrografia

Compreende três grandes áreas de drenagem: Bacia Hidrográfica do **Rio Iguaçu**, Bacia Hidrográfica do **Rio Uruguai** e Vertente do Atlântico. Contudo, podemos também classificar a hidrografia do estado em apenas duas vertentes: atlântica e vertente interior.

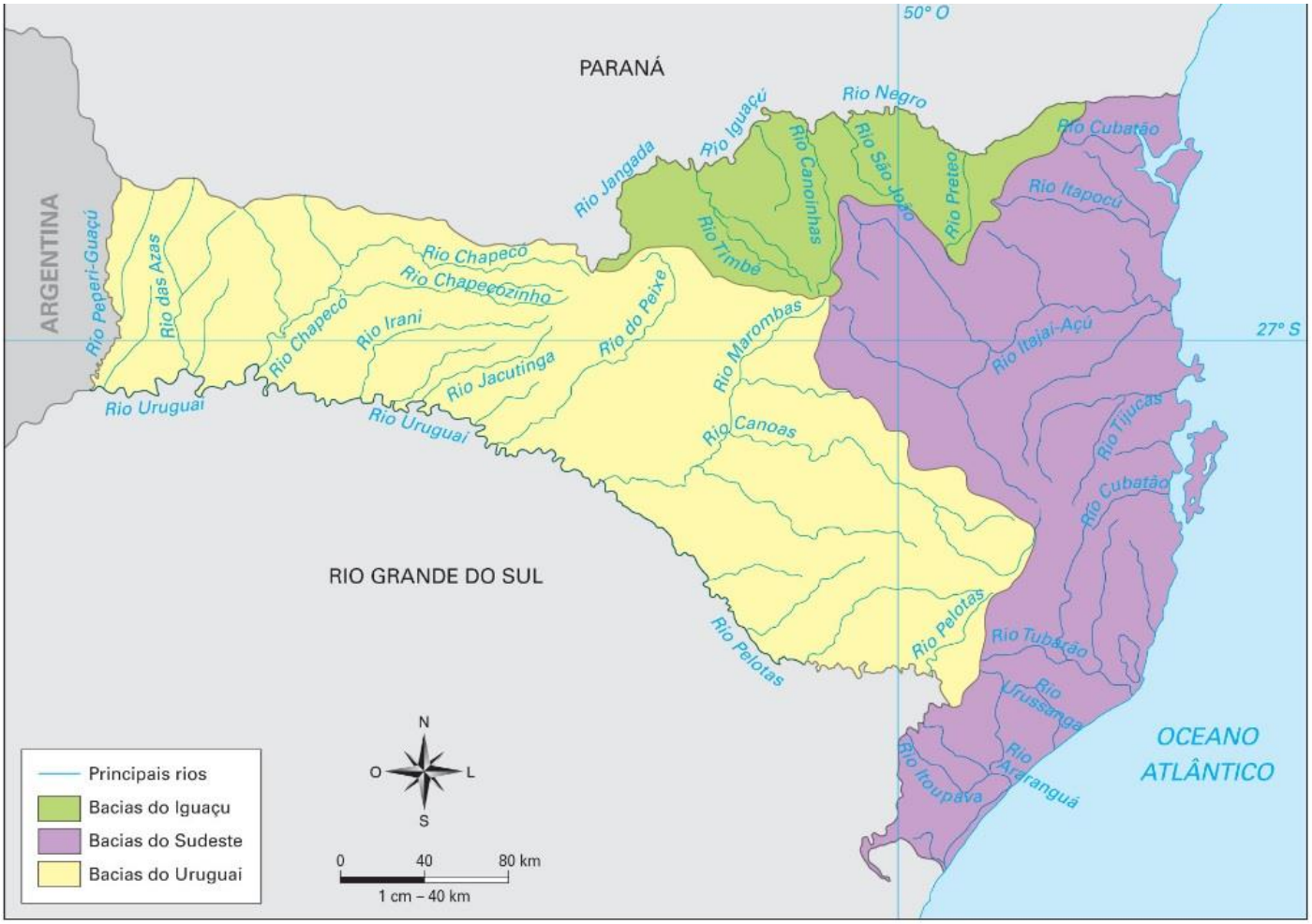

Por FATMA - http://www.fatma.sc.gov.br/, CC BY-SA 4.0, https://commons.wikimedia.org/w/index.php?curid=72828036

Solos

Predominantemente profundos, sendo composto principalmente por solos arenosos nas regiões litorâneas, solos argilosos em mangues e podzólicos (vermelho-amarelo) no restante do estado. São em geral solos férteis.

APOSTA ESTRATÉGICA

Santa Catarina está localizada na região Sul do Brasil e possui divisas ao Norte com o Paraná e ao Sul com o Rio Grande do Sul. Faz fronteira com a Argentina a Oeste e é banhado pelo oceano Atlântico a Leste.

Seu território possui 93.737,895km² e corresponde a 16% do território da região Sul do Brasil. Os planaltos localizados nas divisas ao Norte e Sul são chapadas, ou seja, planaltos esculpidos ação da água em rochas sedimentares, e possuem formatos tabulares e com a presença de cânions. Os localizados no litoral pertencem à Serra do Mar, que são planaltos de origem cristalina, ondulados, cobertos por Mata Atlântica.

.

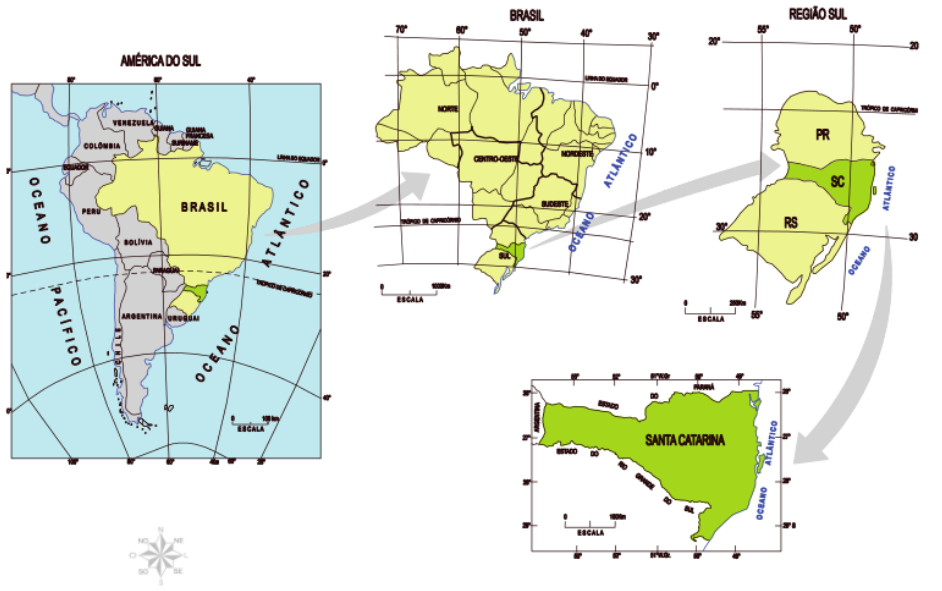

Elaboração: Pedro Agripino Sagaz e Marco Aurélio Leite.

Confrontantes e limites de Santa Catarina

Posição	Confrontantes	Limites
Norte	Paraná	Divisor de águas (serras de Capanema e da Fartura; rio Jangada; BR - 153; rede ferroviária; rios Iguaçu, Negro, Cachoeira e Campo de Cima; marcos divisórios em linha geodésia; rio Saí-Guaçu.
Leste	Oceano Atlântico	Linha litorânea
Sul	Rio Grande do Sul	Rio Mampituba; arroio Josafá; taimbés da Serra Geral; rio das Contas, Pelotas e Uruguai.
Oeste	República Argentina	Rio Peperi-Guaçu

QUESTÕES COMENTADAS

Prof. Sérgio Henrique[1]

1.

Ainda que represente pouco mais de 1% do território brasileiro, Santa Catarina apresenta uma geografia rica e diversificada. Seu relevo, clima, vegetação e hidrografia tornam o Estado singular. E com posição estratégica para a navegação e com litoral rico em recursos e com importantes portos.

Comentários

O clima temperado, ou subtropical úmido é ameno, os solos são férteis em geral o que torna o território muito propício a agropecuária e destaca-se pela produção de alimentos, seja através do agronegócio ou pela agricultura familiar.

Nos concursos geralmente o plantation é associado à principalmente produção de commodities para exportação enquanto destacam a importância da agricultura familiar para a produção de alimentos que abastecem os centros urbanos, é uma das melhores distribuições fundiárias do brasil devido a grande quantidade de pequenas propriedades que surgiram das colônias europeias.

Possui uma posição estratégica, entre os estados da região Sul, e o menor território. Além do litoral ser estratégico para navegação internacional no cone sul, e ser rota de grandes eventos marítimos esportivos internacionais, pertencemos à bacia platina e temos fronteira com a Argentina.

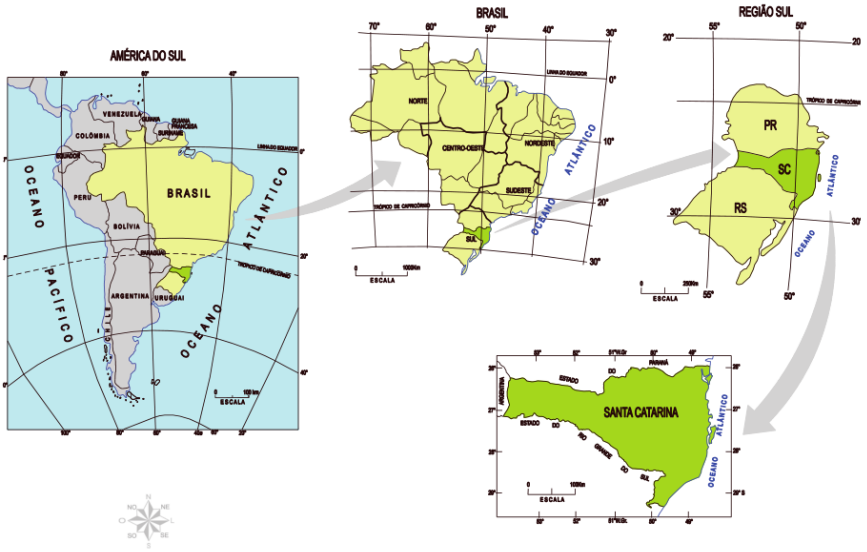

[1] Professor de História, Geografia e Atualidades no Estratégia Concursos. Responsável pelo Passo Estratégico da Realidades de Santa Catarina. Instagram: *@professorsergiohenrique*

Gabarito: C

2.

A vegetação também apresenta variedade ao longo do território. Na região litorânea e nas serras costeiras predomina a Mata Atlântica. As regiões Serrana e Meio-Oeste apresentam Mata de Araucária, além dos Campos do Planalto com características mais campestres e na região Oeste predomina a Mata Caducifólia (que perde as folhas no inverno).

Comentários

Entre as principais atividades econômicas que ocuparam o território, a exploração madeireira tem um papel central, especialmente no século XIX e início do XX, quando grandes empresas de colonização, normalmente associada à uma grande madeireira. A empresa que recebeu a concessão para construir a ferrovia do contestado estava de olho na madeira ao longo da linha férrea. A região Serrana é polo Madeireiro, e é destinada principalmente à construção civil e a indústria moveleira. Hoje a madeira vem principalmente de florestas plantadas, ou seja, silvicultura.

Gabarito: C

3.

O clima predominante é o subtropical úmido, com quatro estações bem definidas. Nas análises de temperaturas médias anuais, as regiões mais frias estão no planalto serrano e no Meio-Oeste, enquanto as regiões mais quentes encontram-se no Oeste e no litoral.

Comentários

As regiões mais frias estão no planalto serrano e no Meio-Oeste, enquanto as regiões mais quentes encontram-se no Oeste e no litoral. A altitude é um importante fator climático, pois nas maiores altitudes a temperatura é menor. Na região serrana há inclusive ocorrência de neve no inverno.

Gabarito: C

4.

A hidrografia de Santa Catarina é constituída pelo sistema da Vertente do Litoral, ou Bacia do Uruguai compreende principalmente os rios Itapocu, Itajaí, Tijucas, Cubatão, Tubarão, Mambituba e Araranguá,os principais afluentes drenados pelo rio Iguaçu.

Comentários

É que compreende principalmente os rios Itapocu, Itajaí, Tijucas, Cubatão, Tubarão, Mambituba e Araranguá, ocupando pouco mais de 32% da bacia hidrográfica do Estado. O restante, que a maioria do território catarinense, faz parte da Vertente do Interior (ou Bacia do Uruguai), formada pelos rios Iguaçu e Uruguai.

Gabarito: E

5. (FEPESE - SEF-SC)

Identifique as afirmações verdadeiras e falsas:

( ) Santa Catarina é o menor Estado da Região Sul do Brasil e ocupa apenas 1,12% da área territorial brasileira.

( ) Nas planícies costeiras que correspondem a uma estreita faixa situada na porção mais oriental do Estado, onde existem inúmeras praias arenosas e dunas, penínsulas, ilhas, pontas, enseadas, baías e lagunas, desenvolve-se uma importante atividade turística.

( ) Desde as proximidades de Joinville até Laguna, estende-se uma sequência de serras, as serras do leste catarinense. A Serra do Mar e as serras do leste constituem sérios obstáculos ao povoamento do Estado. Por esta razão, a terra catarinense foi povoada do interior para o litoral, do Oeste para o leste.

( ) As temperaturas inferiores a 10°C, que ocorrem durante o inverno, em quase todas as regiões do Estado, impossibilitaram o desenvolvimento do cultivo do feijão, milho ou soja no território catarinense, mas favoreceram a produção de trigo, centeia e cevada, nossos principais produtos de exportação.

Assinale a alternativa que mostra a sequência correta, de cima para baixo.

A) V - F - V - F.

B) V - F - F - F.

C) V - V - F - F.

D) F - V - F - V.

E) F - F - V - V.

Comentários

Vamos analisar cada afirmativa:

Afirmativa I - Santa Catarina é o menor Estado da Região Sul do Brasil e ocupa apenas 1,12% da área territorial brasileira. Verdadeira.

Estado – Região Sul	*Área da unidade territorial (IBGE, 2018)*
1º Rio Grande do Sul	281.707,151 km²
2º Paraná	199.305,236 km²
3º Santa Catarina	95.730,921 km²

Afirmativa II **-** Nas planícies costeiras que correspondem a uma estreita faixa situada na porção mais oriental do Estado, onde existem inúmeras praias arenosas e dunas, penínsulas, ilhas, pontas, enseadas, baías e lagunas, desenvolve-se uma importante atividade turística. Verdadeira.

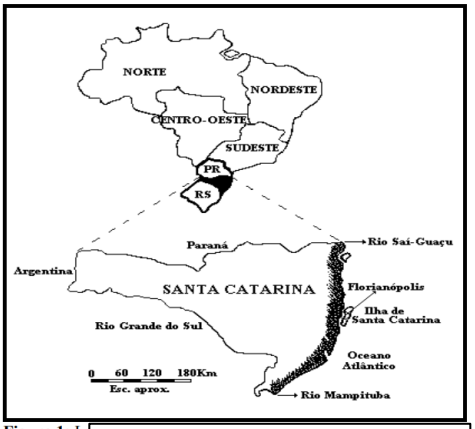

Figura 1: L

As planícies costeiras do Estado de Santa Catarina correspondem a uma estreita faixa de terra situada a borda leste do estado, abriga ao longo dos 538km de litoral adjacente ao oceano Atlântico Sul, grande parte da população catarinense. A província costeira de Santa Catarina possui uma área de 66.212km², compreendendo no setor emerso, a planície costeira e o sistema praial, com uma área de 4.212km².

Afirmativa III - Desde as proximidades de Joinville até Laguna, estende-se uma sequência de serras, as serras do leste catarinense. A Serra do Mar e as serras do leste constituem sérios obstáculos ao povoamento do Estado. Por esta razão, a terra catarinense foi povoada do interior para o litoral, do Oeste para o leste. Falso.

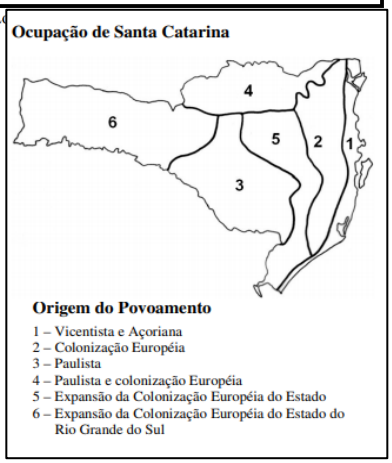

O processo de povoamento do estado de Santa Catarina se deu pela expansão do povoamento do litoral com os Vicentistas, na fundação de São Francisco do Sul, Florianópolis e Laguna. Em meados do Séc. XVIII - Litoral: vicentistas, açorianos e madeirenses que desenvolvem a agricultura. Portugal procura resolver problemas de excesso de população no arquipélago dos Açores e efetivar a ocupação de Santa Catarina. O interior do estado (planalto) só é efetivamente ocupado a partir dos paulistas em busca do gado do Rio Grande do Sul, que fundam Lages em 1771.

Afirmativa IV **-** As temperaturas inferiores a 10°C, que ocorrem durante o inverno, em quase todas as regiões do Estado, impossibilitaram o desenvolvimento do cultivo do feijão, milho ou soja no território catarinense, mas favoreceram a produção de trigo, centeia e cevada, nossos principais produtos de exportação. Falso.

O território catarinense se divide em três áreas básicas, com condições de relevo e clima distintas: o Oeste, o Centro e o Leste.

- No Oeste estão concentrados os grãos, especialmente feijão, milho e soja, e a criação de suínos, aves e bovinos.

- No Centro do estado, com regiões mais elevadas e, por isso, um clima mais frio, se destacam produções que dependem de temperaturas mais baixas, como maçã e uva, além de focos de produção de grãos.

- Leste do estado, na costa oceânica, o clima tem características mais tropicais: quente e úmido. Com isso, espécies como arroz irrigado, hortaliças e banana se desenvolvem bem na região. Também há criação de bovinos lá.

Cada uma dessas regiões já está acostumada a eventos climáticos extremos que costumam afetar a produção. O Oeste costuma ser afetado por estiagem e o Leste por chuvas intensas seguidas de alagamentos. Mais a sul, uma área de baixa pressão e instabilidade meteorológica favorece o aparecimento de ventos fortes e tornados.

Gabarito: B

6. (Acafe)

A diversidade geográfica catarinense é marcante no território nacional. A seguir, está o mapa do estado com indicações de fatos que marcam a paisagem de Santa Catarina.

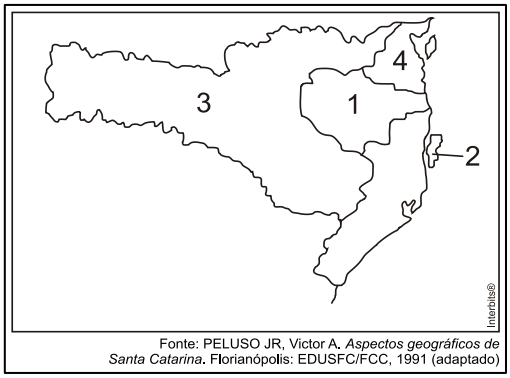

Fonte: PELUSO JR, Victor A. *Aspectos geográficos de Santa Catarina*. Florianópolis: EDUSFC/FCC, 1991 (adaptado)

Sobre Santa Catarina, todas as alternativas estão corretas, **exceto** a:

A) O nº 3 representa a área do planalto, importante área agrícola, de criação de porcos e aves, de móveis, de papel e papelão, além do frio e do turismo rural que atraem inúmeros turistas.

B) O nº 1 corresponde a bacia hidrográfica do rio Itajaí-Açu, onde despontam cidades como Blumenau, Itajaí, Brusque e Rio do Sul, que sofrem com as constantes cheias, como em 2008 e 2011.

C) O nº 4 indica a região Nordeste, comandada pela cidade de Joinville – a maior do estado, que se caracteriza pelo setor metal-mecânico, seguida por Jaraguá do Sul e tem próximo de si o porto de São Francisco do Sul.

D) O nº 2 aponta a ilha de Santa Catarina onde se localiza a cidade de Florianópolis, capital administrativa do estado, onde é mais forte o setor secundário da economia e onde o planejamento urbano fez a mobilidade urbana fluir como a melhor do país.

Comentários

Na ilha de Santa Catarina localiza-se a capital do estado, Florianópolis. A cidade é pouco expressiva no setor secundário (indústria), na verdade, destaca-se no setor terciário da economia, isto é, comércio, bancos e serviços. Como é a capital catarinense, a cidade sobressai nos serviços públicos. A ilha também é um importante polo turístico (balneários e cultura açoriana) e de inovação tecnológica, a exemplo do desenvolvimento de *softwares* para computadores.

Gabarito: D

QUESTIONÁRIO DE REVISÃO

Prof. Sérgio Henrique Lima Reis[2]

Questionário - Somente Perguntas

1) Caracterize o Relevo de Santa Catarina.

2) Em qual unidade de Relevo é possível encontrar mangues no estado?

3) O planalto Geral apresenta-se distribuído em blocos de relevos isolados pelo Planalto Dissecado rio Iguaçu/Rio Uruguai. Quais são estes blocos?

4) De acordo com a classificação de Köppen, o território catarinense se enquadra nos climas do Grupo C – Mesotérmico. Quais são as principais características deste tipo climático?

5) Qual é o nome dado ao clima de Santa Catarina?

6) A depender da escala, é possível observar até 5 tipos de vegetação em Santa Cataria. Quais são essas vegetações?

7) A mata de araucária é uma vegetação que integra qual grande bioma brasileiro?

8) Quais são as três grandes bacias hidrográficas de Santa Catarina?

Questionário - Perguntas e Respostas

1) Caracterize o Relevo de Santa Catarina.
O relevo é predominantemente planáltico, com várias regiões de topo levemente plano a Oeste e o Planalto Serrano, que faz parte dos mares de morros, planaltos ondulados cobertos de floresta. Planaltos são formas de relevo em que o processo de erosão supera o de sedimentação.

2) Em qual unidade de Relevo é possível encontrar mangues no estado?
Planície Costeira, onde também encontramos os sambaquis. Planícies são formas de relevo em que o processo de sedimentação supera o de erosão.

3) O planalto Geral apresenta-se distribuído em blocos de relevos isolados pelo Planalto Dissecado rio Iguaçu/Rio Uruguai. Quais são estes blocos?

[2] Professor de História, Geografia e Atualidades no Estratégia Concursos. Responsável pelo Passo Estratégico da Realidades de Santa Catarina. Instagram: *@professorsergiohenrique*

Os blocos que constituem esta unidade são conhecidos como planalto de Palmas, planalto de Capanema, planalto de Campos Novos e planalto de Chapeco.

4) De acordo com a classificação de Köppen, o território catarinense se enquadra nos climas do Grupo C – Mesotérmico. Quais são as principais características deste tipo climático?
O clima mesotérmico não possui estação seco e sofre influências de massas de ar como a Massa Polar Atlântica e a Massa Tropical Atlântica.

5) Qual é o nome dado ao clima de Santa Catarina?
Subtropical Úmido, ou temperado ou na classificação de Köppen CFA (subtropical com verões quentes e úmidos) e CFB (subtropical com verões brandos).

6) A depender da escala, é possível observar até 5 tipos de vegetação em Santa Cataria. Quais são essas vegetações?
Vegetação Litorânea; Mata Atlântica; Mata de Araucárias; Campos e Mata Subtropical.

7) A mata de araucária é uma vegetação que integra qual grande bioma brasileiro?
Mata Atlântica, floresta úmida e estacional (varia conforme a estação do ano) torna-se a floresta de araucárias conforme aumenta a latitude (distância do equador) e altitude (regiões planálticas).

8) Quais são as três grandes bacias hidrográficas de Santa Catarina?
Bacia Hidrográfica do Rio Iguaçu; Bacia Hidrográfica do Rio Uruguai, as duas com drenagem endorreica, ou seja, corre para o interior, e Bacia Hidrográfica da Vertente do Atlântico. As nascentes ficam na região serrana, que é um divisor de águas, ou seja, separa bacias.

LISTA DE QUESTÕES

Prof. Sérgio Henrique[3]

1.

Ainda que represente pouco mais de 1% do território brasileiro, Santa Catarina apresenta uma geografia rica e diversificada. Seu relevo, clima, vegetação e hidrografia tornam o Estado singular. E com posição estratégica para a navegação e com litoral rico em recursos e com importantes portos.

2.

A vegetação também apresenta variedade ao longo do território. Na região litorânea e nas serras costeiras predomina a Mata Atlântica. As regiões Serrana e Meio-Oeste apresentam Mata de Araucária, além dos Campos do Planalto com características mais campestres e na região Oeste predomina a Mata Caducifólia (que perde as folhas no inverno).

3.

O clima predominante é o subtropical úmido, com quatro estações bem definidas. Nas análises de temperaturas médias anuais, as regiões mais frias estão no planalto serrano e no Meio-Oeste, enquanto as regiões mais quentes encontram-se no Oeste e no litoral.

4.

A hidrografia de Santa Catarina é constituída pelo sistema da Vertente do Litoral, ou Bacia do Uruguai compreende principalmente os rios Itapocu, Itajaí, Tijucas, Cubatão, Tubarão, Mambituba e Araranguá,os principais afluentes drenados pelo rio Iguaçu.

5. (FEPESE - SEF-SC)

Identifique as afirmações verdadeiras e falsas:

( ) Santa Catarina é o menor Estado da Região Sul do Brasil e ocupa apenas 1,12% da área territorial brasileira.

( ) Nas planícies costeiras que correspondem a uma estreita faixa situada na porção mais oriental do Estado, onde existem inúmeras praias arenosas e dunas, penínsulas, ilhas, pontas, enseadas, baías e lagunas, desenvolve-se uma importante atividade turística.

[3] Professor de História, Geografia e Atualidades no Estratégia Concursos. Responsável pelo Passo Estratégico da Realidades de Santa Catarina. Instagram: *@professorsergiohenrique*

( ) Desde as proximidades de Joinville até Laguna, estende-se uma sequência de serras, as serras do leste catarinense. A Serra do Mar e as serras do leste constituem sérios obstáculos ao povoamento do Estado. Por esta razão, a terra catarinense foi povoada do interior para o litoral, do Oeste para o leste.

( ) As temperaturas inferiores a 10°C, que ocorrem durante o inverno, em quase todas as regiões do Estado, impossibilitaram o desenvolvimento do cultivo do feijão, milho ou soja no território catarinense, mas favoreceram a produção de trigo, centeia e cevada, nossos principais produtos de exportação.

Assinale a alternativa que mostra a sequência correta, de cima para baixo.

A) V - F - V - F.

B) V - F - F - F.

C) V - V - F - F.

D) F - V - F - V.

E) F - F - V - V.

6. (Acafe)

A diversidade geográfica catarinense é marcante no território nacional. A seguir, está o mapa do estado com indicações de fatos que marcam a paisagem de Santa Catarina.

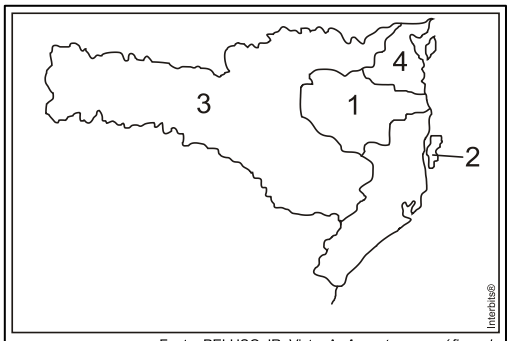

Fonte: PELUSO JR, Victor A. *Aspectos geográficos de Santa Catarina*. Florianópolis: EDUSFC/FCC, 1991 (adaptado)

Sobre Santa Catarina, todas as alternativas estão corretas, **exceto** a:

A) O nº 3 representa a área do planalto, importante área agrícola, de criação de porcos e aves, de móveis, de papel e papelão, além do frio e do turismo rural que atraem inúmeros turistas.

B) O nº 1 corresponde a bacia hidrográfica do rio Itajaí-Açu, onde despontam cidades como Blumenau, Itajaí, Brusque e Rio do Sul, que sofrem com as constantes cheias, como em 2008 e 2011.

C) O nº 4 indica a região Nordeste, comandada pela cidade de Joinville – a maior do estado, que se caracteriza pelo setor metal-mecânico, seguida por Jaraguá do Sul e tem próximo de si o porto de São Francisco do Sul.

D) O nº 2 aponta a ilha de Santa Catarina onde se localiza a cidade de Florianópolis, capital administrativa do estado, onde é mais forte o setor secundário da economia e onde o planejamento urbano fez a mobilidade urbana fluir como a melhor do país.

ESSA LEI TODO MUNDO CONHECE:
PIRATARIA É CRIME.

Mas é sempre bom revisar o porquê e como você pode ser prejudicado com essa prática.

1. Professor investe seu tempo para elaborar os cursos e o site os coloca à venda.

2. Pirata divulga ilicitamente (grupos de rateio), utilizando-se do anonimato, nomes falsos ou laranjas (geralmente o pirata se anuncia como formador de "grupos solidários" de rateio que não visam lucro).

3. Pirata cria alunos fake praticando falsidade ideológica, comprando cursos do site em nome de pessoas aleatórias (usando nome, CPF, endereço e telefone de terceiros sem autorização).

4. Pirata compra, muitas vezes, clonando cartões de crédito (por vezes o sistema anti-fraude não consegue identificar o golpe a tempo).

5. Pirata fere os Termos de Uso, adultera as aulas e retira a identificação dos arquivos PDF (justamente porque a atividade é ilegal e ele não quer que seus fakes sejam identificados).

6. Pirata revende as aulas protegidas por direitos autorais, praticando concorrência desleal e em flagrante desrespeito à Lei de Direitos Autorais (Lei 9.610/98).

7. Concurseiro(a) desinformado participa de rateio, achando que nada disso está acontecendo e esperando se tornar servidor público para exigir o cumprimento das leis.

8. O professor que elaborou o curso não ganha nada, o site não recebe nada, e a pessoa que praticou todos os ilícitos anteriores (pirata) fica com o lucro.

Deixando de lado esse mar de sujeira, aproveitamos para agradecer a todos que adquirem os cursos honestamente e permitem que o site continue existindo.